Soal ini di Download di Folder OSN
https://folderosn.blogspot.com

SOAL
OLIMPIADE SAINS NASIONAL SMP
SELEKSI TINGKAT PROVINSI
TAHUN 2019

BIDANG STUDI ILMU PENGETAHUAN SOSIAL

PETUNJUK UMUM
Waktu Tes: 150 menit

1. Soal terdiri dari 40 butir Soal Pilihan Jamak, 8 (delapan) butir Soal Hubungan Antar Konsep (HAK), dan 4 (empat) butir Soal Esai.
2. Jawablah setiap soal pada lembar jawaban yang telah disediakan!
3. Untuk soal Pilihan Jamak, jawaban yang benar mendapatkan nilai 2, jawaban yang salah mendapat nilai -1, dan tidak menjawab mendapat nilai 0 (nol).
4. Untuk soal Hubungan Antarkonsep (HAK), nilai maksimal adalah 5, jawaban yang salah mendapat nilai 0 (nol), dan tidak menjawab mendapat nilai 0 (nol).
5. Untuk soal hubungan antarkonsep, buatlah pernyataan hubungan antar dua konsep yang diajukan sehingga memiliki makna yang logis
   Contoh :

Konsep A	Konsep B	Hubungan Antarkonsep
Angin	Tekanan udara	Angin terjadi akibat dari perbedaan tekanan udara didua tempat yang berbeda. Udara dengan tekanan yang lebih tinggi akan mengalir menuju daerah yang memiliki udara yang lebih rendah.

6. Untuk soal Esai, jawaban yang benar mendapatkan nilai 20, jawaban yang salah mendapat nilai 0 (nol), dan tidak menjawab mendapat nilai 0 (nol).
7. Pilihlah satu jawaban yang paling tepat dengan memberi tanda silang (X) pada huruf A, B, C atau D.
8. Bila ingin mengganti jawaban, berilah tanda dua garis datar pada jawaban yang dianggap salah dan berilah tanda silang (X) pada jawaban pengganti.
   Contoh: 1. ~~A~~ B C ~~D~~
9. Lembar jawaban harus diisi dengan menggunakan ballpoint/ tinta berwarna biru, tidak boleh menggunakan pensil.
10. Selama mengerjakan soal tidak diperbolehkan menggunakan kalkulator dan/atau alat hitung lainnya.
11. Periksa kembali lembar jawaban yang telah Anda isi sebelum diserahkan kepada juri atau pengawas.
12. Soal dikembalikan kepada panitia.

Soal ini di Download di Folder OSN https://folderosn.blogspot.com

A. SOAL PILIHAN JAMAK

1. Banyak orang berasumsi bahwa Raflesia Arnoldi sama dengan bunga Bangkai. Manakah pernyataan berikut ini yang benar ... .
   A. Bunga bangkai memiliki nama latin *amorphophallus titanum*
   B. Bunga Raflesia memiliki bentuk yang menjulang ke atas
   C. Bunga Bangkai memiliki bentuk yang lebar membulat ke samping
   D. Bunga Raflesia termasuk ke dalam keluarga talas-talasan

2. Hutan merupakan salah satu kekayaan sumber daya alam yang harus dijaga kelestariannya. Akan tetapi saat ini banyak terjadi penyusutan luas hutan yang paling drastis di Indonesia antara lain terdapat di Provinsi ....
   A. Jawa Barat, Kalimantan Timur, Papua
   B. Riau, Kalimantan Tengah, Aceh
   C. Sulawesi Selatan, Kalimantan Barat, Bangka Belitung
   D. Maluku, Papua, Nusa Tenggara Barat

3. Bangkok sangat terkenal dengan destinasi wisata sungai dan kota yang menghadap sungai (*water front city*). Kota-kota di Indonesia juga sangat berpotensi dikembangkan seperti Bangkok yaitu ...
   A. Jayapura, Bandung, Denpasar
   B. Pekanbaru, Pangkal Pinang, Palangkaraya
   C. Semarang, Medan, Ambon
   D. Palembang, Pontianak, Samarinda

4. Perhatikan bagian Peta Topografi berikut ini. Untuk menuju puncak agar pendakian tidak terlalu berat maka jalur yang ditempuh adalah ....

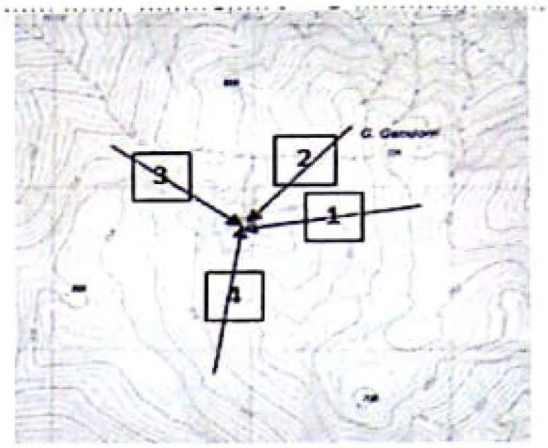

A. 4
B. 3
C. 2
D. 1

5. Perhatikan gambar di bawah ini. Berdasarkan kondisi geologisnya, Indonesia memiliki potensi kekayaan sumberdaya alam sebagai berikut, kecuali .....

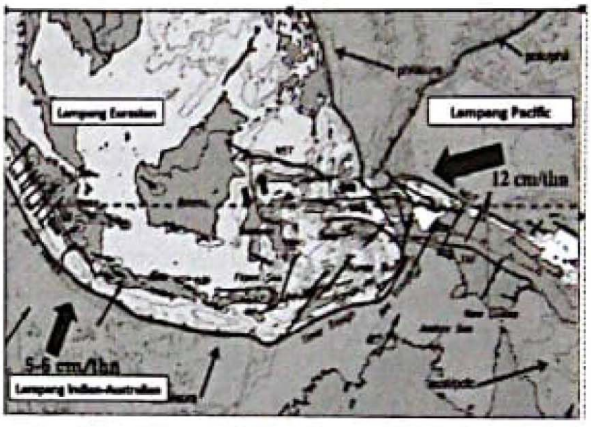

   A. Gunung api
   B. Batuan dan mineral
   C. Tanah subur
   D. Wilayah laut

6. Di daerah pegunungan, umumnya petani menanam jenis tanaman palawija. Hal ini karena kondisi lingkungan alam yang berpengaruh adalah ....
   A. Aktivitas gunung berapi
   B. Tanah pegunungan yang sangat subur
   C. Tanah pegunungan yang sulit menahan air
   D. Termperatur wilayah pegunungan sangat rendah

Soal ini di Download di Folder OSN https://folderosn.blogspot.com

7. Alur Laut Kepulauan Indonesia (ALKI) adalah alur laut yang ditetapkan sebagai alur untuk pelaksanaan Hak Lintas Alur Laut Kepulauan berdasarkan konvensi hukum laut internasional. Berikut ini adalah ALKI yang telah ditetapkan, kecuali ....
   A. Selat Sunda
   B. Selat Lombok
   C. Selat Ombai-Wetar
   D. Selat Bali

8. Penanaman padi Gogo Rancah di Nusa Tenggara Timur dengan cara ditugal seperti halnya padi ladang hal ini karena keadaan alam wilayah tersebut .....
   A. Jumlah bulan basah < jumlah bulan kering
   B. Jumlah bulan basah > jumlah bulan kering
   C. Jumlah bulan basah = jumlah bulan kering
   D. Temperatur udara yang sangat tinggi

9. Wilayah Sangiran merupakan tempat ditemukannya banyak kerangka manusia purba. *Landform* dari wilayah Sangiran adalah ...
   A. lembah
   B. dataran
   C. pegunungan
   D. perbukitan

10. Untuk menjaga kelestarian hutan, masyarakat di sekitar hutan menetapkan wilayah hutan larangan. Salah satu suku di Indonesia yang masih menjaga adanya hutan larangan, yaitu suku ...
   A. Baduy
   B. Tengger
   C. Osing
   D. Mandar

11. Salah satu contoh bentuk interaksi manusia dengan lingkungan alam, antara lain ....
   A. tradisi masyarakat pulang mudik saat hari raya ke kampung halamannya
   B. adaptasi makanan Eropa dan Asia dalam masakan Indonesia
   C. TKI mengirimkan uang hasil bekerjanya untuk membangun rumah
   D. lahan persawahan berubah menjadi pemakaman mewah

12. Modal sosial masyarakat yang digunakan untuk bertahan pada masa paceklik adalah ....
   A. meminjam uang dari rentenir untuk memenuhi kebutuhan hidup
   B. membeli kebutuhan pokok di warung dengan cara berutang
   C. mengganti bahan pokok dengan sumber nabati lain
   D. memanfaatkan hasil hutan yang ada untuk makan sehari-hari

13. Meluasnya pemakaian media sosial seringkali digunakan untuk menyerang kelompok lain yang berbeda keyakinan. Untuk meminimalisasi gejala tersebut, lembaga sosial yang harus diperkuat peranannya adalah lembaga ....
   A. pendidikan
   B. ekonomi
   C. agama
   D. politik

14. Untuk mendukung sektor pariwisata di daerah, siswa SMP di sekitar Kepulauan Wakatobi Sulawesi Tenggara diajarkan muatan lokal berupa tarian dan lagu daerah. Hal ini menunjukkan perwujudan dari interaksi manusia dengan ....
   A. lingkungan budaya
   B. lingkungan agama
   C. lingkungan alam
   D. lingkungan buatan

15. Keikutsertaan setiap Warga Negara Indonesia (WNI) yang sudah berusia 17 tahun dalam Pemilihan Umum, merupakan bentuk implementasi dari lembaga sosial ....
   A. pendidikan
   B. politik
   C. keluarga
   D. ekonomi

Soal ini di Download di Folder OSN https://folderosn.blogspot.com

16. Keluarga mengajarkan untuk menghargai dan menghormati suku bangsa lain. Nilai ini diajarkan agar tumbuh rasa persatuan dan kesatuan bangsa, sehingga dapat meminimalisasi konflik antarsuku bangsa. Dalam hal ini lembaga keluarga menjalankan peran ....
    A. sosialisasi
    B. afektif
    C. religius
    D. kontrol sosial

17. Di tengah perkembangan teknologi yang semakin modern, masyarakat Yogyakarta dan Solo masih rutin menyelenggarakan Upacara Sekaten. Tindakan ini menunjukkan fungsi lembaga sosial yaitu ....
    A. menjaga keutuhan masyarakat
    B. memberikan pedoman bagi masyarakat
    C. mengontrol tingkah laku masyarakat
    D. melestarikan budaya masyarakat

18. Banyaknya kasus pencemaran nama baik melalui media sosial yang diselesaikan melalui jalur hukum berdasar UU ITE Nomor 19 Tahun 2016 merupakan salah satu bentuk akomodasi, yaitu ....
    A. mediasi
    B. ajudikasi
    C. konsiliasi
    D. kompromi

19. Sistem perdagangan *online* melibatkan penyedia jasa *online* dengan para penjual yang mendaftar di *website marketplace*. Interaksi sosial ini termasuk ke dalam bentuk ....
    A. akomodasi
    B. kooptasi
    C. *joint venture*
    D. koalisi

20. Contoh perubahan sosial budaya karena pengaruh interaksi masyarakat melalui media massa, adalah ....
    A. Perkembangan teknologi pertanian dengan memanfaatkan rekayasa genetik
    B. Berkembangnya bahasa 'gaul' yang berbeda dengan struktur bahasa Indonesia
    C. Perubahan teknologi kedokteran dari pengobatan medis menjadi holistik
    D. Penggunaan pupuk organik untuk meningkatkan hasil pertanian

21. Kongres Pemuda yang pertama, 30 April -2 Mei 1926 bertujuan ... .
    A. Membentuk organisasi satu fusi dari semua organisasi pemuda di daerah.
    B. Menanamkan semangat kerja sama antarperkumpulan pemuda di Indonesia
    C. Merumuskan ikrar pemuda Indonesia yang dikenal dengan Sumpah Pemuda.
    D. Menanamkan kesadaran satu nasib bangsa, satu adat, dan satu budaya

22. Ketokohan Sjafruddin Prawiranegara bagi perjuangan bangsa Indonesia sehingga ia dianugerahi gelar Pahlawan Nasional oleh pemerintah adalah ... .
    A. memimpin delegasi RI dalam perundingan merebut Irian Barat/Papua dari tangan Belanda
    B. memimpin delegasi RI dalam perundingan Konferensi Meja Bundar di Den Haag tahun 1949
    C. menduduki beberapa jabatan penting sekaligus pada masa Revolusi, yaitu wakil perdana menteri, menteri keuangan, menteri perdagangan, dan menteri pertanian
    D. memimpin Pemerintah Darurat Republik Indonesia di Bukittinggi ketika ibukota Yogyakarta diduduki Belanda

23. Tokoh-tokoh pendiri Republik Indonesia yang pernah memaparkan konsep negara "kesatuan" adalah ... .
    A. Muhammad Yamin, Ki Hadjar Dewantara, dan K.H. Ahmad Dahlan
    B. Muhammad Yamin, Tjokroaminoto, dan S.K. Trimurti
    C. Muhammad Yamin, Soepomo, dan Soekarno
    D. Muhammad Yamin, Muhammad Hatta, dan Soetan Sjahrir

Soal ini di Download di Folder OSN https://folderosn.blogspot.com

24. Di awal Perang Dunia II Jepang memberikan janji kepada bangsa Indonesia di bawah ini, kecuali ...
   A. Memberikan kemudahan menjalankan ibadah
   B. Memperbolehkan penggunaan bahasa Indonesia
   C. Memperbolehkan "Indonesia Raya" dinyanyikan setelah lagu "Kimigayo"
   D. Menjalankan sistem pemerintahan berdikari.

25. Pernyataan yang tepat tentang perkembangan politik di negara Asia dan Afrika setelah Perang Dunia II
   1) Bangsa-bangsa Asia dan Afrika memperoleh kemerdekaan karena ditinggalkan oleh penjajahnya akibat Perang Dunia II.
   2) Keunggulan militer Eropa semakin diakui di mata bangsa-bangsa Asia dan Afrika karena kemenangan Perang Dunia II oleh pihak Sekutu.
   3) Ideologi demokrasi liberal dan komunisme tersebar ke negara-negara Asia dan Afrika.
   4) Jepang diakui oleh Sekutu sebagai salah satu negara besar yang sejajar.
   A. 1, 2, dan 3
   B. 1 dan 3
   C. 2 dan 4
   D. 4

26. Gambar Jalur Migrasi di Nusantara

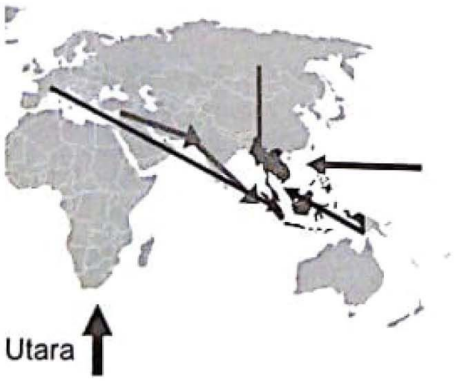

Berdasarkan gambar tersebut, jalur migrasi yang terjadi di Nusantara, adalah ... .
   1) Migrasi dari utara (Tiongkok) ke wilayah kepulauan Indonesia
   2) Migrasi dari barat (India, Timur Tengah, Eropa) ke wilayah kepulauan Indonesia
   3) Migrasi dari wilayah kepulauan Pasifik ke wilayah kepulauan Indonesia
   4) Migrasi dari benua Amerika ke kepulauan Indonesia

   A. 1, 2, dan 3
   B. 1 dan 3
   C. 2 dan 4
   D. 4

27. Berkembangnya semangat kebangsaan Indonesia pada masa pergerakan nasional dipelopori oleh kalangan pribumi terdidik, di antaranya
   1) Guru
   2) Dokter
   3) Wartawan
   4) Pegawai pemerintah (*ambtenaar*)

   A. 1, 2, dan 3
   B. 1 dan 3
   C. 2 dan 4
   D. 4

28. Kebijakan pemerintah Indonesia untuk memperbaiki ekonomi pada masa Demokrasi Terpimpin meliputi
   1) Kebijakan gotong royong
   2) Kebijakan Semesta
   3) Kebijakan inflansi
   4) Kebijakan devaluasi

   A. 1, 2, 3
   B. 1, 3
   C. 2, 4
   D. 4

Soal ini di Download di Folder OSN https://folderosn.blogspot.com

29. Faktor ekonomi yang memicu berakhirnya pemerintah Orde Baru adalah
    1) Dunia perbankan dilanda kredit macet yang parah
    2) Meningkatnya pemutusan hubungan kerja (PHK)
    3) Anjloknya nilai ekspor dan kelangkaan surat utang (*Letter of Credit*
    4) Menurunnya inflasi ketidakstabilan politik
    A. . 1, 2, dan 3
    B. 1 dan 3
    C. 2 dan 4
    D. 4

30. Peradaban dan manusia pendukung kebudayaan yang berkembang di Nusantara berasal dari
    1) Peradaban Mesolithikum dengan manusia pendukungnya Papua Melanesoide di Pusat Dongson dan Hoabinh di Teluk Tonkin.
    2) Peradaban Mesolithikum dengan manusia pendukungnya Mongoloid di Lembah Sungai Hwang-Ho.
    3) Peradaban Neolithikum dengan manusia pendukungnya Melayu Autronesia di Teluk Tokin.
    4) Peradaban Neolithikum dengan manusia pendukungnya Kaukasoide di lembah Sungai Indus.

    A. 1, 2, dan 3
    B. 1 dan 3
    C. 2 dan 4
    D. 4

31. Sebuah hotel selain menyewakan kamar juga memiliki usaha restoran dan toko cendera mata hasil karya pengrajin setempat. Bidang produksi hotel tersebut adalah ....
    A. jasa, agraris, dan ekstraktif
    B. jasa, industri manufaktur, dan ekstraktif
    C. jasa, industri manufaktur, dan perdagangan
    D. industri manufaktur, agraris, dan perdagangan

32. Pernyataan berikut menggambarkan hal-hal yang dilakukan pelaku ekonomi:
    a. Membeli faktor produksi
    b. Menyediakan barang publik
    c. Menyediakan faktor produksi
    d. Menciptakan guna barang/jasa
    e. Menghabiskan guna barang/jasa
    f. Mengkonsumsi barang/jasa publik

    Dari pernyataan di atas kegiatan yang dilakukan masyarakat konsumen adalah ....
    A. a, dan d
    B. c, dan e
    C. b, d, dan f
    D. c, e, dan f

33. Perhatikan diagram aliran melingkar berikut!

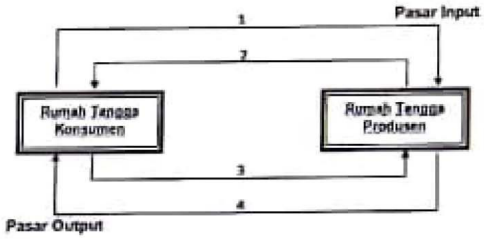

    Kondisi perekonomian yang stabil menyebabkan hasrat masyarakat membeli saham/surat berharga semakin tinggi dan deviden yang dibagikan kepada masyarakat semakin besar. Dalam diagram aliran melingkar, peristiwa tersebut dicerminkan dengan aliran nomor ....
    A. 1 dan 2
    B. 1 dan 4
    C. 2 dan 3
    D. 3 dan 4

34. Dalam kegiatan usahanya koperasi menerapkan prinsip sebagai berikut kecuali ....
    A. menerapkan prinsip kemandirian
    B. melakukan pengelolaan usaha koperasi secara demokratis
    C. memberikan balas jasa yang tidak terbatas terhadap modal
    D. meningkatkan kualitas hidup bukan hanya anggota tetapi juga masyarakat

35. Peristiwa yang paling tepat menggambarkan kondisi pasar bawang merah pada saat panen raya adalah ....
   A. penawarannya bertambah, permintaannya tetap, kuantitas dan harganya meningkat
   B. penawaran dan permintaannya bertambah, kuantitas meningkat dan harganya menurun
   C. penawarannya bertambah, permintaannya menurun, kuantitas dan harganya meningkat
   D. penawarannya bertambah, permintaannya tetap, kuantitasnya meningkat, harganya menurun

36. Seorang pebisnis Indonesia membutuhkan uang sebesar US$5.000,00. Dengan kurs tengah yang berlaku sebesar 1US $ = Rp14.500,00, *Money changer* terdekat menetapkan kurs jual sebesar 1US $ = Rp15.000,00 sedangkan kurs beli sebesar 1US$ = Rp14.000,00. Uang Rupiah yang harus ditukarkan pebisnis tersebut adalah ....
   A. Rp70.000.000,00
   B. Rp72.500.000,00
   C. Rp75.000.000,00
   D. Rp77.000.000,00

37. Indeks Pembangunan Manusia (IPM) merupakan indikator untuk mengukur keberhasilan pembangunan kualitas hidup manusia (masyarakat/ penduduk). Salah satu dimensi dasar pembentuk IPM adalah ....
   A. standar hidup layak
   B. angka ketergantungan
   C. tingkat kenaikan harga
   D. kemerataan pendapatan

38. Dampak yang diinginkan oleh pemerintah melalui kebijakan keringanan pajak *(tax holiday)* bagi perusahaan yang berorientasi ekspor adalah ....
   A. pengusaha memperoleh keuntungan yang lebih besar dari biasanya
   B. biaya produksi menjadi rendah sehingga meningkatkan jumlah produksinya
   C. harga barang menjadi murah dan mampu bersaing dengan produk negara lain
   D. mendorong masyarakat berwirausaha sehingga dapat mengurangi pengangguran

39. Permasalahan ekonomi yang muncul akibat pengangguran yang terjadi karena cepatnya pertambahan penduduk tanpa disertai kesempatan kerja yang memadai adalah ....
   A. meningkatnya kemiskinan
   B. meningkatnya tindak kriminalitas
   C. ketidakstabilan kondisi politik dan keamanan
   D. munculnya kesenjangan sosial dalam masyarakat

40. Akhir-akhir ini pemerintah Indonesia gencar melakukan kampanye gerakan nasional non tunai untuk mendorong masyarakat melakukan pembayaran. Berikut pernyataan yang menggambarkan keuntungan pembayaran non tunai kecuali ....
   A. terkendali karena setiap transaksi non tunai yang dilakukan tercatat oleh sistem
   B. mudah karena semua toko (*merchant*) bersedia menerima pembayaran non tunai
   C. praktis karena tidak perlu membawa banyak uang untuk transaksi yang nilainya besar
   D. aman karena alat pembayaran nontunai menggunakan sandi rahasia yang hanya diketahui oleh pemiliknya

B. SOAL HUBUNGAN ANTARKONSEP

No	Konsep 1	Konsep 2	Hubungan Antarkonsep
1	Pemilu 1955	Demokrasi	....
2	Asian Games 2018	Kerjasama Multilateral	....
3	Inflasi	Ketimpangan Sosial	....
4	Pendidikan	Kualitas Penduduk	....
5	Sungai Kapuas	Sistem perdagangan	....
6	Zaman Praaksara	Transaksi ekonomi	....

No	Konsep 1	Konsep 2	Hubungan Antarkonsep
			....
7	Gempa Bumi	Tatanan Sosial	....
8	Interaksi Sosial	Kesejahteraan	....

C. SOAL ESAI

1. Jelaskan dampak positif dan negatif dari letak geografis Indonesia dalam bidang sosial ekonomi!

2. Uraikan bagaimana transmigrasi dapat menjadi salah satu faktor pendorong mobilitas sosial?

3. Bacalah wacana berikut ini!

   Tabel berikut menggambarkan persentase penjualan *smartphone* di Indonesia pada Tahun 2017.

Ranking	Merek *Smartphone*	Pangsa Penjualan
1	Samsung	24,2%
2	Evercross	14,3%
3	Advan	11,0%
4	Smartfren	10,4%
5	Asus	8,8%
6	Merek lain	31,3%
	Jumlah	100,0%

Smartphone di tanah air terus menggurita dan semakin populer di kalangan masyarakat. Saat ini pasar *smartphone* dikuasi lima merek dagang dengan pangsa pasar mencapai 68,7% sementara pangsa pasar lainnya yaitu sebesar 31,3% diperebutkan oleh merek-merek smartphone yang lain. Hebatnya lagi, *smartphone* merek lokal (Evercross, Advan, dan

Soal ini di Download di Folder OSN https://folderosn.blogspot.com

Smartfren) mampu bersaing dengan merek global (Samsung dan Asus) dengan mengedepankan keunggulan fitur-nya masing-masing (Sumber: www.arenaLTE.com)

Dalam ilmu ekonomi dikenal pasar berstruktur persaingan sempurna, persaingan monopolistis, oligopoli, dan monopoli. Merujuk wacana di atas, menurut Anda apa struktur pasar untuk produk *smartphone* dan jelaskan alasannya!

4. Bacalah sumber surat kabar berikut:

TEMPO.CO, Jakarta-- Wakil Menteri Pendidikan dan Kebudayaan Bidang Kebudayaan Wiendu Nuryanti menyatakan pemerintah Malaysia sudah tujuh kali mengklaim budaya Indonesia sejak 2007. Bahkan, tari Zapin, rendang, gamelan, dan cendol pun tercatat dalam akta budaya Malaysia.

"... Klaim terhadap kesenian reog Ponorogo pada November 2007," kata Wiendu dalam rapat dengar pendapat bersama Komisi X Dewan Perwakilan Rakyat di kompleks parlemen, Senayan, Rabu 20 Juni 2012.Setelah reog, berikutnya Malaysia mengklaim lagu daerah asal Maluku, Rasa Sayange, pada Desember 2008. Tari pendet dari Bali juga sempat diklaim pada Agustus 2009 lewat iklan pariwisata Malaysia Truly Asia. "Klaim ini selesai setelah ada protes dari Indonesia," ujar Wiendu.Selanjutnya, pada 2009 kerajinan batik diklaim, tapi masalah ini selesai karena UNESCO mengakui batik Indonesia. Pada Maret 2010, Malaysia mengklaim alat musik angklung. "Dan yang terakhir adalah klaim tari tortor dan alat musik Gordang Sambilan dari Mandailing," kata Wiendu.

Rencana pemerintah Malaysia mengakui tari tortor dan alat musik Gordang Sambilan mencuat setelah kantor berita Bernama di Malaysia melansir pernyataan Menteri Penerangan Komunikasi dan Kebudayaan Malaysia Datuk Seri Rais Yatim tentang rencananya mendaftarkan kedua budaya masyarakat Sumatera Utara itu dalam Seksyen 67 Akta Warisan Kebangsaan 2005.

Anggota Komisi Kebudayaan DPR, Raihan Iskandar, meminta pemerintah membuat program yang jelas dalam melindungi kebudayaan bangsa yang ada. Sebab, kejadian seperti itu bukanlah yang pertama. "Yang terpenting adalah bagaimana penyelesaian masalah kali ini tidak berimbas pada hubungan antara Indonesia dan Malaysia," ujarnya. (PRIHANDOKO | SYAILENDRA, sumber: https://nasional.tempo.co, "Malaysia Sudah Tujuh Kali Mengklaim Budaya RI", teks sudah sesuaikan seperlunya)

Dengan merujuk pada sumber di atas:
a. uraikan secara historis hubungan Indonesia dan Malaysia
b. jelaskan mengapa klaim budaya Indonesia oleh Malaysia memicu konflik
c. bagaimana langkah-langkah yang harus dilakukan pemerintah dan masyarakat dalam merawat kebudayaan Indonesia!